新北市三重區厚德國民小學
108 學年度第 1 學期

數學科期末定期評量　　一年　　班　　號 姓名：

一、 做做看（每題 3 分，共 27 分）

1. 數一數，多的畫掉，不夠的畫○補上去。

(1) 17 個蛋糕

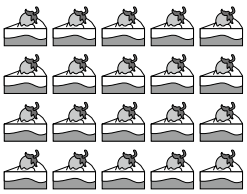

(2) 16 朵花

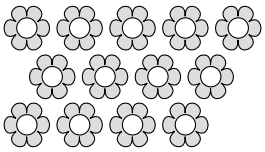

2. 媽媽買了 5 個蘋果和 8 個芭樂，蘋果比芭樂少幾個？畫○算算看。

蘋果	
芭樂	

答：少(　　)個

3. 在正確答案的□裡打∨

(1)寵物店有 18 隻小貓和 22 隻小狗，哪一種比較少？

□小貓　□小狗　□一樣多

(2)媽媽買了 21 顆包子，有 23 個袋子，1 個袋子裝 1 顆包子，袋子夠不夠？

□夠　□不夠

4. 最大的數打∨，最小的數打×　。

(1)

16	30	26

(2)

14	13	23

(3)

29	20	17

(4)

18	19	17

二、 連連看(每條線 1 分，共 7 分)

1. 把答案相同的連起來。



2. 把答案相同的算式連起來。

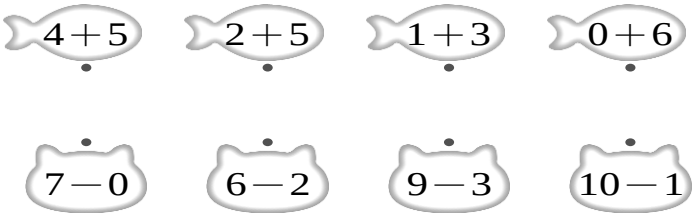

三、 算算看(每題 2 分，共 12 分)

(1) 7＋0＝(　　)　　(2) 6＋2＝(　　)

(3) 5＋5＝(　　)　　(4) 7－7＝(　　)

(5) 10－8＝(　　)　　(6) 9－0＝(　　)

四、 看圖回答問題(每格 2 分，共 20 分)

1.

長針指著(　　)，

短針指著(　　)，

是(　　)點鐘。

2.

短針指在(　　)

和(　　)的中間，

長針指著(　　)，

是(　　)點半。

3. 小熊們排隊買花。

(1)阿德排在第 21 個，他前面排了

(　　)隻小熊，總共有(　　)隻小熊

在排隊。

(2) 和 誰會先買到花？ (圈起來)

(，)

五、 填填看(每格 1 分，共 19 分)

1. 把下面的數字，從大排到小，填在○裡。

16　13　19　25　21

○ ➡ ○ ➡ ○ ➡ ○ ➡ ○

2. 這是一天中下午的 4 個時刻，按照先後順序在(　)裡填上 1、2、3、4。



(　　)　(　　)　(　　)　(　　)

3. 下面的數字卡， 比 8 大， 比 14 小的數中， 有哪些數字卡不見了？

(　　)、(　　)、(　　)

11　8　9　15　14

4. 按照順序填填看。

(1)



(2)

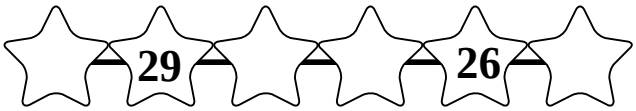

六、寫出算式和答案(每題 3 分，共 15 分)

1. 姐姐先吃了 5 塊巧克力，又吃了 3 塊，一共吃了幾塊巧克力？

算式：

答：(　　)塊

2. 魚缸裡有 6 條魚，又倒進 3 條魚，魚缸裡一共有幾條魚？

算式：

答：(　　)條魚

3. 火車一共有 9 節車廂，有 4 節車廂載滿了貨物，還剩下幾節車廂是空的？

算式：

答：剩下(　　)節

4. 罐子裡有 2 顆軟糖和 8 顆巧克力，軟糖比巧克力少幾顆？

算式：

答：少(　　)顆

5. 一盒雞蛋有 5 顆，媽媽買了 2 盒，一共有幾顆蛋？

算式：

答：(　　)顆蛋